Wochenplan Nummer 2 Klasse: 5; Abgabe: 16.09.2021

1. Fülle die Hundertertafel aus

	24	

	36	

	83	

25		

		23

	58	

201		

401		

		252

2. Schreibe auf drei Weisen

2,18 m = 2 m 18 cm = 218 cm

8,29 m = _____ = _____ cm

6,47 m = _____ = _____ cm

6,2 m = _____ = _____ cm

2,78 m = _____ = _____ cm

1,98 m = _____ = _____ cm

3. Wie viele cm sind es?

197 mm = _____ cm

31,6 mm = _____ cm

968 mm = _____ cm

39,1 mm = _____ cm

536 mm = _____ cm

46,5 mm = _____ cm

4. Berechne die Aufgaben

•	2	4	6
3			
11			
5			
8			
7			
10			

+	7	8	16
3			
9			
12			
7			
14			
8			

5. Magische Quadrate. Fülle die Lücken aus

Magische Zahl:

		6
11	8	5
	1	

Magische Zahl:

4		
	8	6
		12

Magische Zahl:

3		4
7		
8	1	

6. Fülle die Lücken aus. Achtung: Das sind Multiplikationspyramiden!!

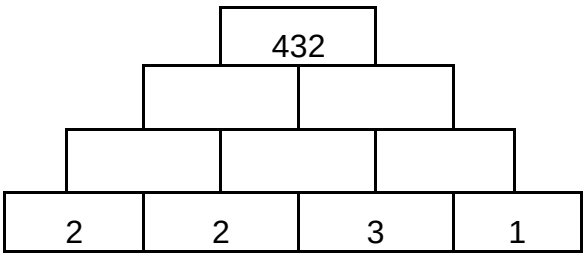

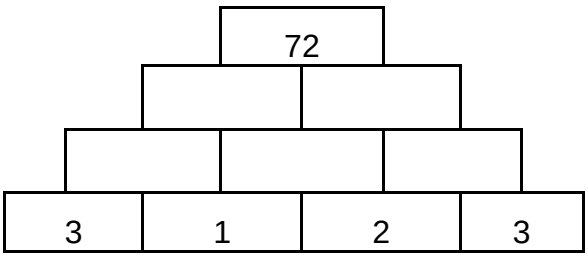
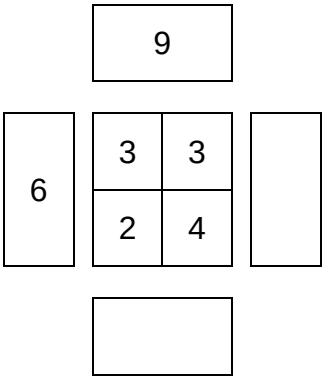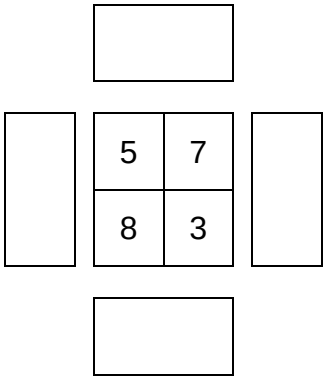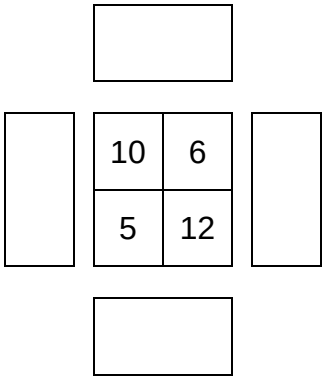
7. Vervollständige die Rechenvierecke der Multiplikation (Nachbarzahlen werden multipliziert)